５年生基本シート（診断）Ｂ１

取り組んだ日	月	日

B1	5年　算数	＿＿年　＿＿組 名前

1　次の問題に答えましょう。

①次の整数を偶数と奇数に分けましょう。

0	1	3	6	17	30	401	1118

②次の数を書きましょう。

・（３、５）の公倍数（小さい数から３つ）

・（18、72）の公約数（すべての数）

2　次の数を書きましょう。

①3.075 を 100 倍、1000 倍した数

②21.9 を 1/100 倍、1/1000 倍した数

3　計算をしましょう。

0.08×4.03

4　計算をしましょう。

13.946÷0.19

5　計算をしましょう。

$3\frac{2}{3}+2\frac{1}{6}$

6　計算をしましょう。

$3\frac{3}{8}-1\frac{3}{4}$

7　計算をしましょう。

$1\frac{2}{21}\times 7$

8　計算をしましょう。

$3\frac{6}{5}\div 4$

9　次の問題に答えましょう。

①0.42 を百分率で表しましょう。

②108％を小数で表しましょう。

③今年の東京小学校の児童数は 468 人で、去年の児童数の 90％に当たります。去年の児童数は何人でしょう。

10　底面のたてが 3cm、横が 2cm の直方体の高さと体積の関係を調べましょう。

①下の表にまとめましょう。

高さ cm	1	2	3	4	5	6	7
体積cm^3	6						

②高さを□cm、体積を△cm^3として、□と△の関係を式にしましょう。

③高さが 10cm のときの体積を求めましょう。

５年生基本シート（診断）Ｂ２

取り組んだ日　　月　　日

B2	5年　算数	＿＿年　＿＿組 名前

11　次の図形の面積を求めましょう。

①

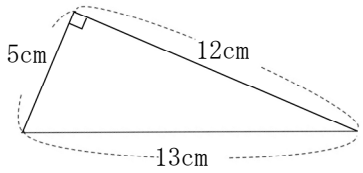

②

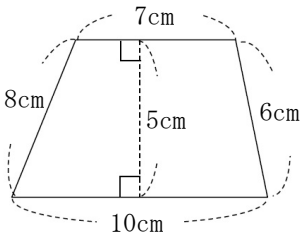

12　次の図形の体積を求めましょう。

①

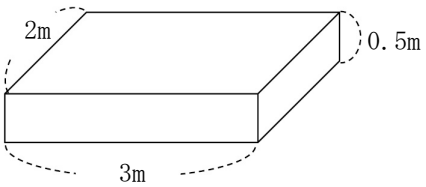

②

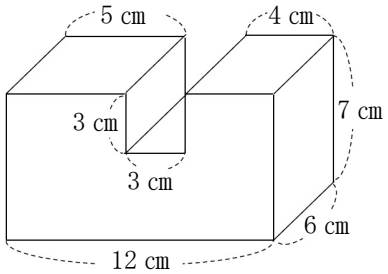

13　下の表の平均を求めましょう。

バスケットボールの試合の
１試合当たりの得点

試合	1	2	3	4	5
得点	8	11	9	13	12

14　次の表から人口密度を、四捨五入して一の位までの数で求めましょう。

	人口（人）	面積（㎢）
A町	487639	51
B町	407959	43

15　次の図形と合同な三角形をかきましょう。

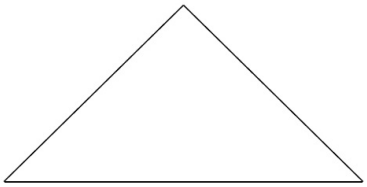

16　次のア、イの角度を求めましょう。

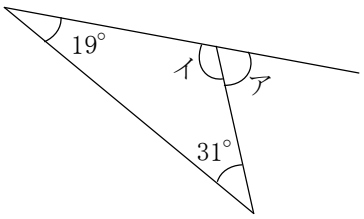

17　帯グラフを見て答えましょう。

保健室に来た児童の
けがの種類の割合（合計 80 人）

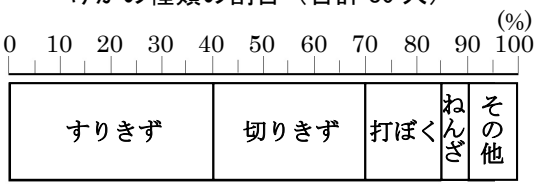

①切りきずの人数は何人ですか。

②すりきずの人数は、ねんざの人数の何倍ですか。